Nombre: _____ Fecha: _____

¿Qué reloj es?

1 Marca el reloj que dice la hora.

las tres en punto



las siete y media





las diez en punto





las cinco y media



las ocho y media



la una en punto



las once y media

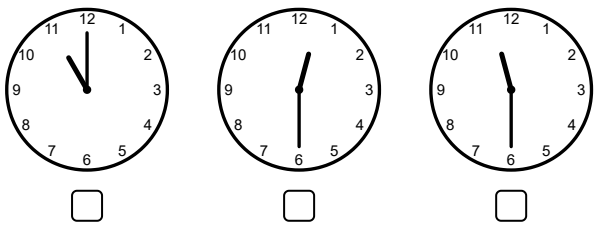



las seis en punto

