Nombre: _____ Fecha: _____

Escribe el decimal

1 Escribe el decimal

Escribe el número decimal y la fracción que representa cada cuadrícula.



Decimal: ☐ Fracción: ☐/☐



Decimal: ☐ Fracción: ☐/☐

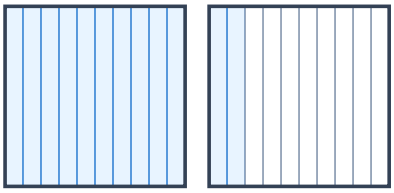

Decimal: ☐ Fracción: ☐/☐



Decimal: ☐ Fracción: ☐/☐

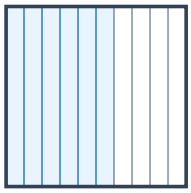

Decimal: ☐ Fracción: ☐/☐



Decimal: ☐ Fracción: ☐/☐

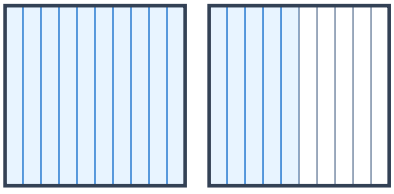

Decimal: ☐ Fracción: ☐/☐



Decimal: ☐ Fracción: ☐/☐